....

Imię i nazwisko klasa

Kartkówka 4 Grupa A

1. Dodaj lub odejmij liczby, a wyniki wpisz w puste okienka niżej.

4 p.

5 + 10	14 + 1	10 + 3	11 + 4

14 – 10	10 – 7	12 – 2	15 – 10

2. Odczytaj godziny na kolejnych zegarach i je zapisz.

2 p.



godzina



godzina

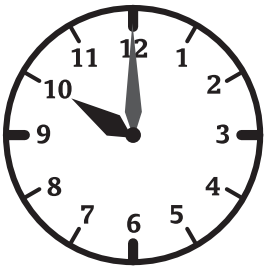

godzina



godzina

3. Przy ulicy stoją 2 domy. W jednym domu mieszka 5 osób, a w drugim mieszkają 4 osoby.

2 p.

Ile osób mieszka w tych domach?

W tych

Ogólna liczba punktów:

8 p.

Ocena nauczyciela: .....

....
Imię i nazwisko klasa

Kartkówka 4 Grupa B

1. Dodaj lub odejmij liczby, a wyniki wpisz w puste okienka niżej.

4 p.

12 + 3	11 + 4	14 + 1	3 + 10

14 – 4	15 – 5	13 – 10	15 – 10

2. Odczytaj godziny na kolejnych zegarach i je zapisz.

2 p.



godzina godzina godzina godzina

3. Przy ulicy stoją 2 domy. W jednym domu mieszkają 3 osoby, a w drugim mieszka 6 osób.

2 p.

Ile osób mieszka w tych domach?

W tych

Ogólna liczba punktów:

8 p.

Ocena nauczyciela: .....